On donne :

Les façades de deux pavillons accolés. n°20 et 21
Le plan du réez de chaussé du n°20
Les coupes verticales AA et CC
La coupe verticale BB

On demande :

Question n°1 :
Que veut dire T III sur le plan bâtiment N°20

……

Question n°2 :
Quel sera le type de finition est appliqué sur les murs des façades du coté jardin ?

……..

Question n3
Que veut dire EP sur le plan de coupe de la maison

……

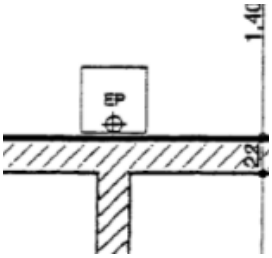

Question n°4 :
Indiquer l'épaisseur totale des murs extérieurs de ce pavillon

……..

Question n°5
Indiquer LNB et HNB de la porte fenêtre du séjour :

LNB : …….. HNB : ……..

Question n°6 :
Donner les dimensions intérieures du garage

longueur :…….. Largeur …….

Question n°7 :

Calculer la surface de la cuisine :

……

Question n°8 :

Donner la hauteur **de l'allège** de la fenêtre du débarras voir sur les vues en coupes

Hauteur d'allège : …….

Question n°9 :

Indiquer le nom de la pièce située derrière la porte identifiée **F** sur la coupe BB.

F……

Question n°10 :

Identifier la pièce qui correspond à fenêtre **G** sur le plan de façades qui donne sur la rue

G ……

Question n°11 :

Donner la hauteur de la maison : (sur vue en coupe : …….

Question n°12 :

Donner la hauteur sous plafon du débarras : …….

Question n°13 :

Donner la hauteur de la dalle du garage : ……

Question n°14 :

Donner la hauteur sous plafon du garage :…….

Question n°15 :

Pouvez vous donner la plus grande longueur et la plus grande largeur du bâtiment

Longueur :……

Largeur : ……..

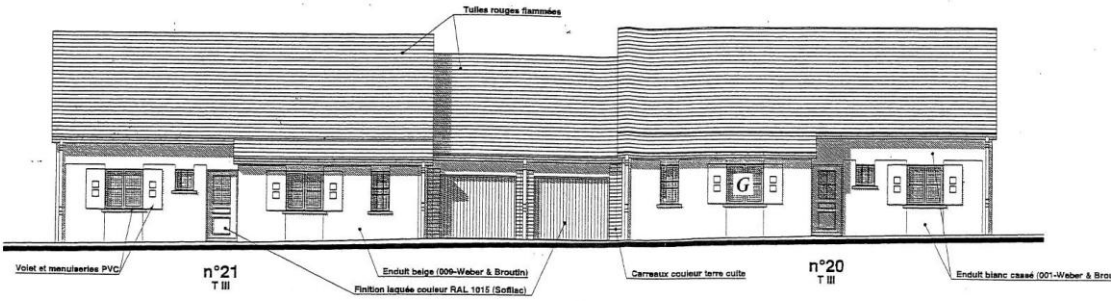

FACADES SUR RUE

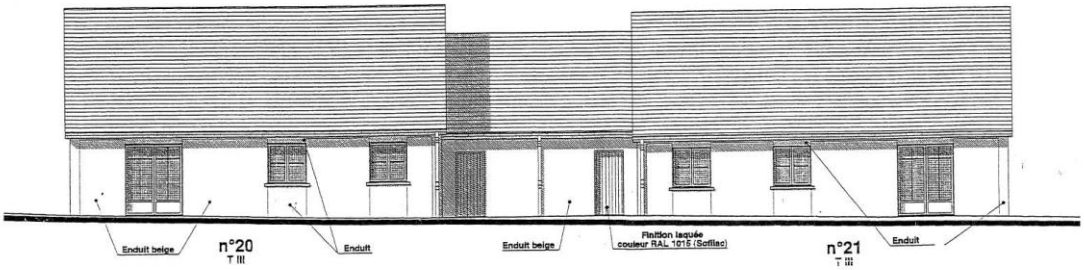

FACADES SUR JARDINS

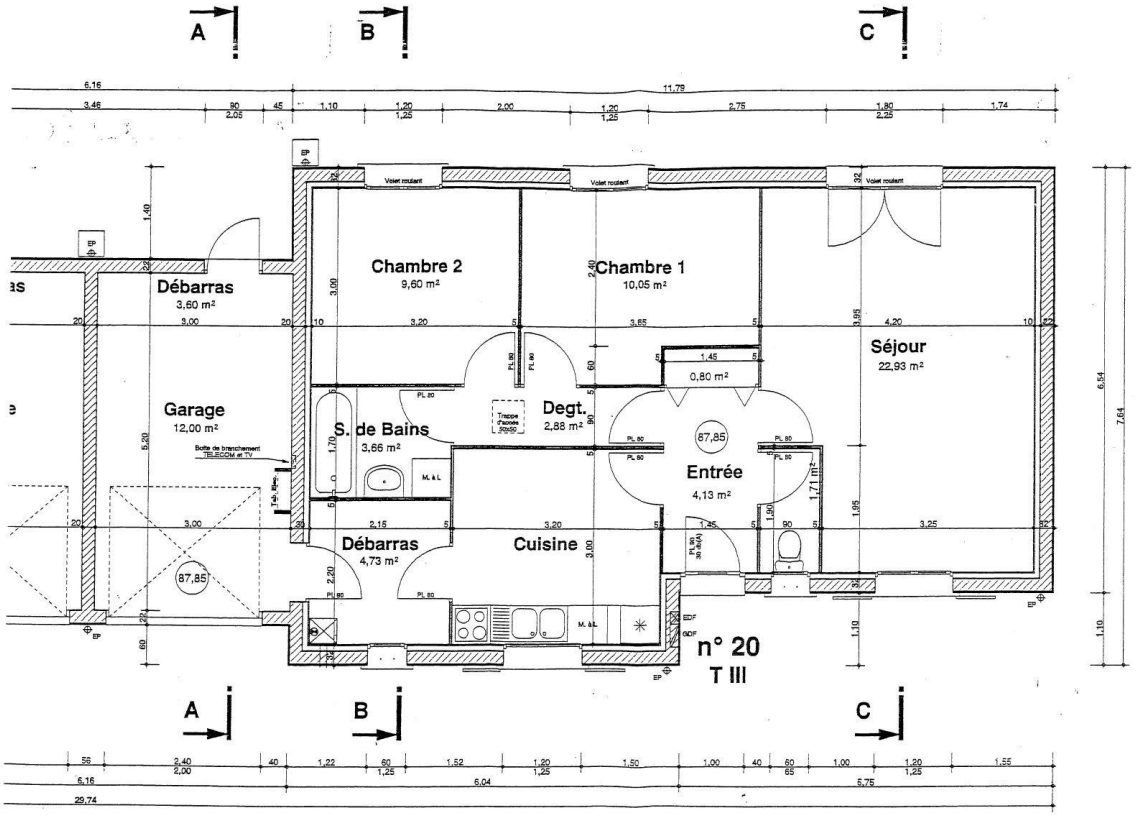

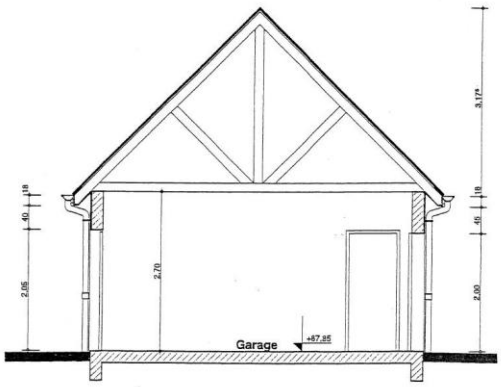

Coupe A-A

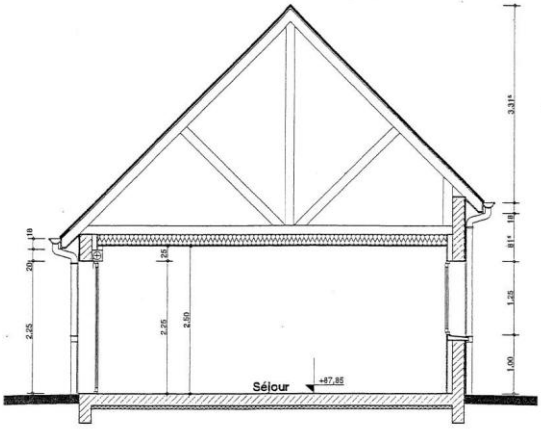

Coupe C-C

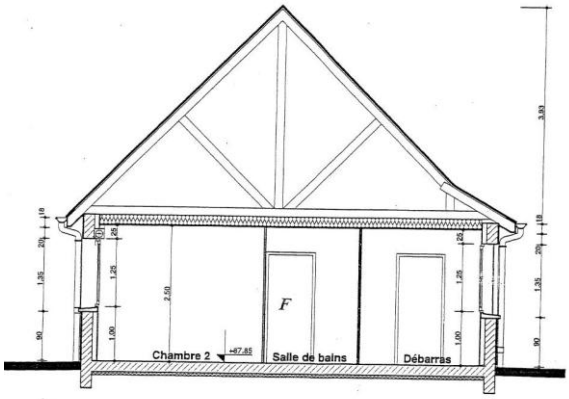

Coupe B-B